تحديد المواقع الجغرافيّة

- نتاجات الدرس :
- 1- أن يعدد المناطق المائية والمناطق اليابسة الموجودة على الكرة الأرضية
- 2- أن يعيّن المحيطات والقارات على الخريطة
- 3- أن يحدد الموقع النسبي على الخريطة
- 4- أن يحدد الموقع الفلكي على الخريطة

دعاء ابو زهره

تلخيص جغرافيا – الصف السادس- الفصل الأول – درس تحديد المواقع الجغرافيّة

تنقسم الكرة الأرضية إلى

- مناطق مائية
  - تتمثل في المسطحات المائية كالمحيطات(الأطلسي , الهادي , الهندي , المتجمد الشمالي , المتجمد الجنوبي)
  - البحار
- مناطق يابسة
  - القارات السبع (أسيا , افريقيا , أوروبا , أمريكا الشمالية , أمريكا الجنوبية , أوقيانوسيا والقارة القطبية الجنوبية

دعاء أبو زهره

تلخيص جغرافيا – الصف السادس- الفصل الأول – درس تحديد المواقع الجغرافيّة

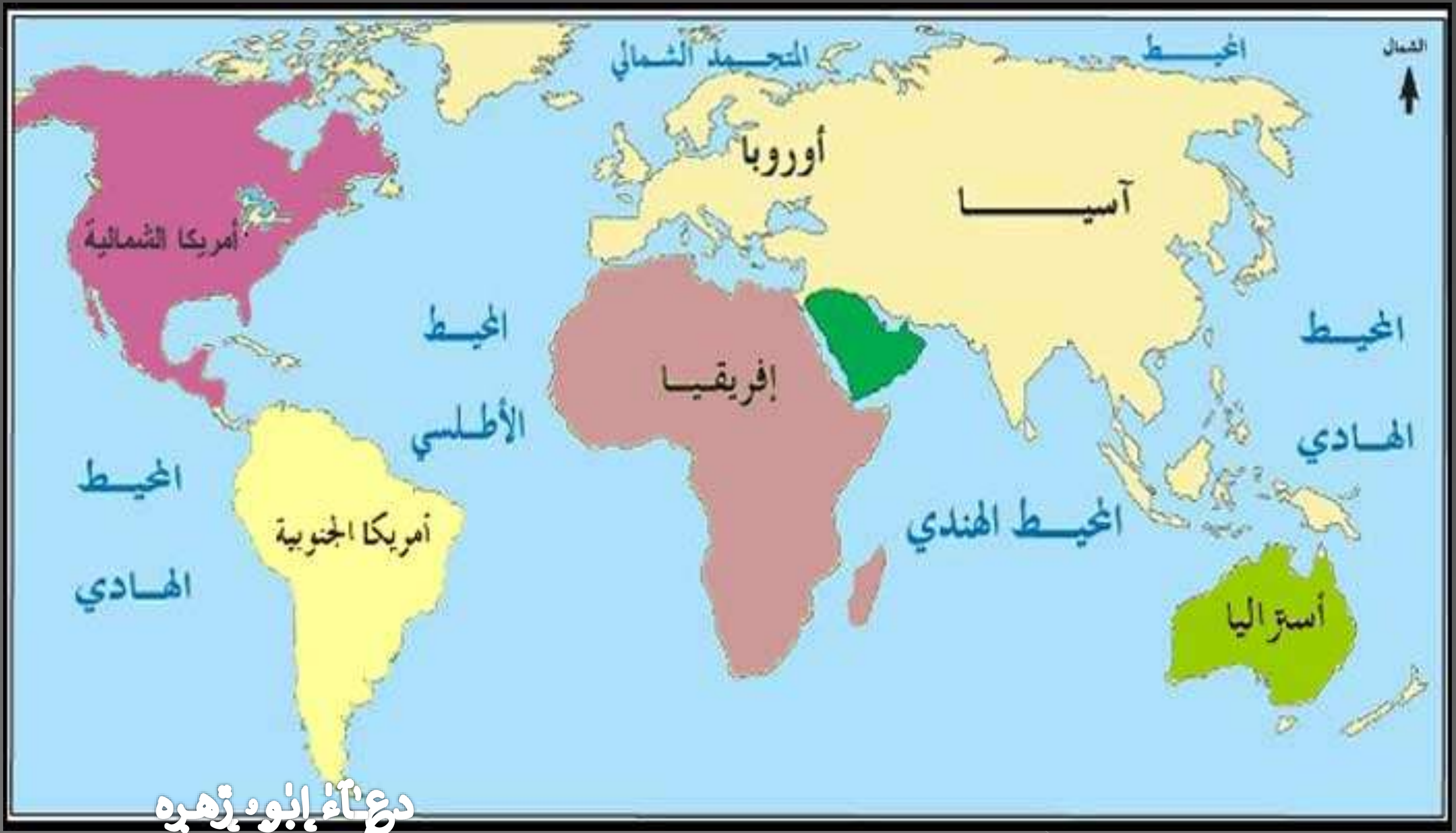
الشمال
المحيـــط
المتجمــد الشمالي
أوروبا
آسيـــا
أمريكا الشمالية
المحيط
الأطلسي
إفريقيـــا
المحيط
الهـادي
المحيط
الهـادي
أمريكا الجنوبية
المحيـــط الهندي
أستراليا
دعاء ابو زهره

خريطة العالم

واجب

عند مشاهدتك للخريطة أجيب عم يلي :

1- ما أسماء القارات التي تظهر في الخريطة ؟

2- عدد المحيطات الظاهرة على الخريطة ؟

3- ما اسم الخريطة ؟

تلخيص جغرافيا – الصف السادس- الفصل الأول – درس تحديد المواقع الجغرافيّة

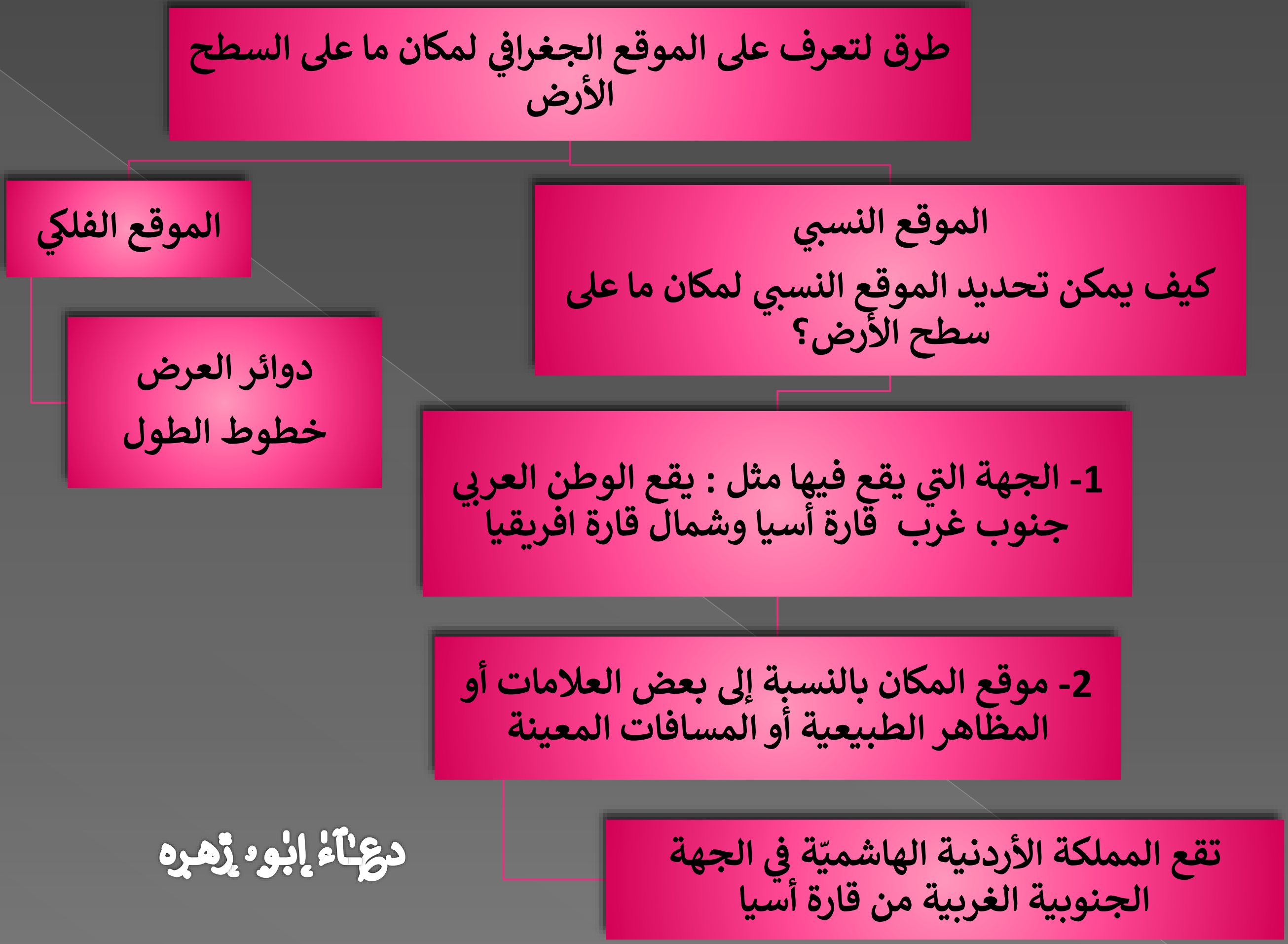

طرق لتعرف على الموقع الجغرافي لمكان ما على السطح الأرض

الموقع النسبي

كيف يمكن تحديد الموقع النسبي لمكان ما على سطح الأرض؟

1- الجهة التي يقع فيها مثل : يقع الوطن العربي جنوب غرب قارة أسيا وشمال قارة افريقيا

2- موقع المكان بالنسبة إلى بعض العلامات أو المظاهر الطبيعية أو المسافات المعينة

تقع المملكة الأردنية الهاشميّة في الجهة الجنوبية الغربية من قارة أسيا

الموقع الفلكي

دوائر العرض

خطوط الطول

دعاء ابو زهره

عرّف الموقع النسبي :

الجهة التي يقع فيه وموقع المكان بالنسبة إلى بعض العلامات أو المظاهر الطبيعية أو المسافات المعينة

الموقع الفلكي :

ينقسم إلى خطوط الطول ودوائر العرض

قارن بين دوائر العرض خطوط الطول من ناحية التعريف الامتداد والعدد والأهمية

المقارنة	دوائر العرض	خطوط الطول
التعريف	هي دوائر وهمية تلف الكرة الأرضية من الغرب إلى الشرق وتبدأ بخط الصفر الذي يسمى خط الاستواء وتنتهي بخط 90 درجة شمالا وجنوبا من خط الاستواء	هي أنصاف دوائر وهمية تمتد من الشمال إلى الجنوب ويبلغ مجموعها 360 درجة وتبدأ بخط الصفر الذي يسمى بخط غرينتش
الامتداد	من الغرب إلى الشرق	الشمال إلى الجنوب
العدد	180	360
الأهمية	معرفة المناخ ومعرفة الموقع الفلكي	معرفة الزمن ومعرفة الموقع الفلكي

دعاء إبو زهره

عرّف خط الاستواء : هي دائرة عرض درجتها صفر تبدأ من عندها دوائر العرض على شكل دوائر وهمية شمالا وجنوبا تلف الكرة الأرضية من الغرب إلى الشرق

عرّف خط غرينتش : هي خط الطول الرئيس الوهمي يبلغ صفر درجة يمر بضاحية غرينتش في مدينة لندن وتبدأ من عنده خطوط الطول تمتد من الشمال إلى الجنوب على شكل إنصاف دوائر

تلخيص جغرافيا – الصف السادس- الفصل الأول – درس تحديد المواقع الجغرافيّة

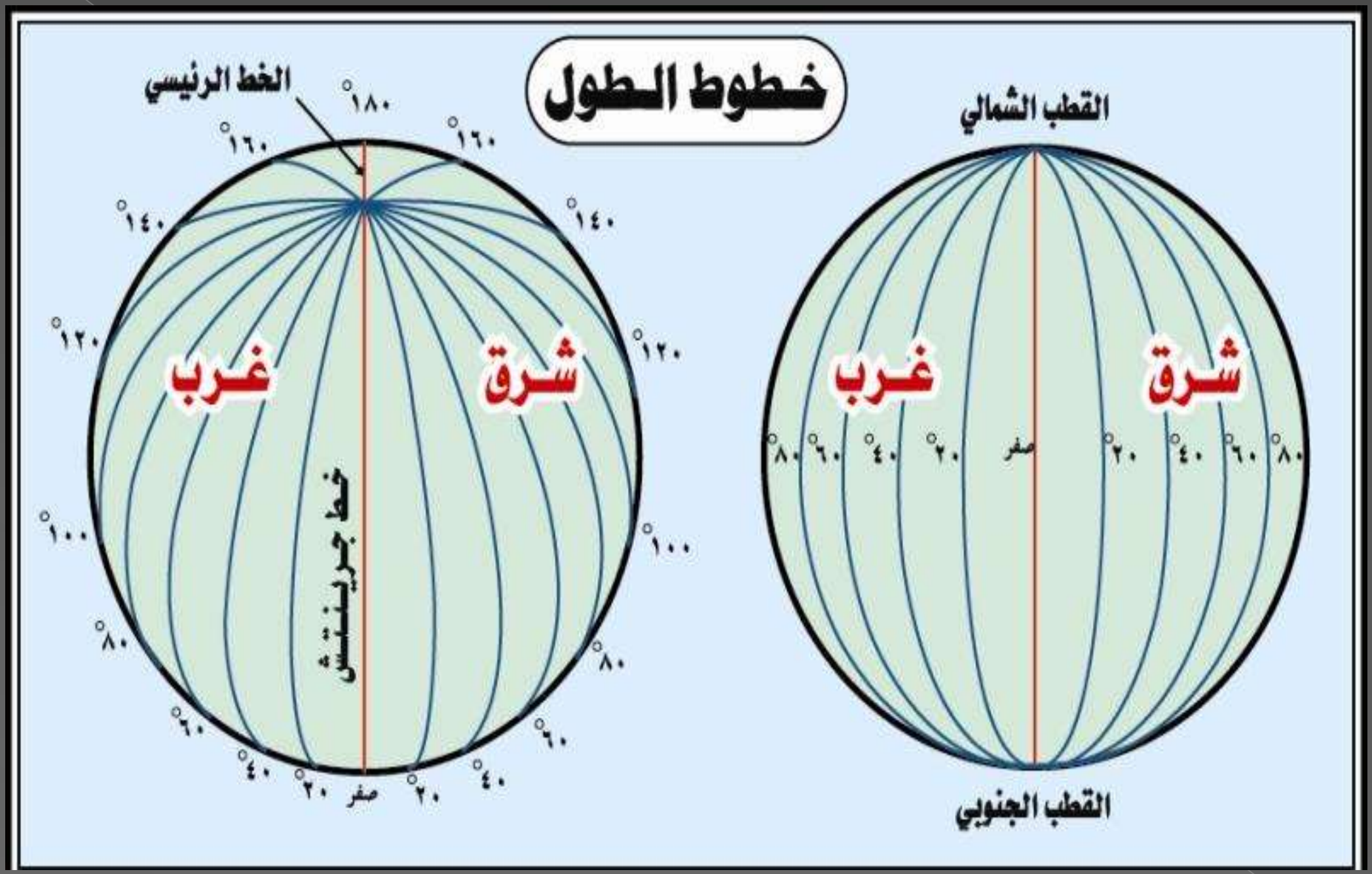
خطوط الطول
الخط الرئيسي
١٨٠°
١٦٠°
١٦٠°
١٤٠°
١٤٠°
١٢٠°
١٢٠°
١٠٠°
١٠٠°
٨٠°
٨٠°
٦٠°
٦٠°
٤٠°
٤٠°
٢٠°
صفر
٢٠°
غرب
شرق
خط جرينتش
القطب الشمالي
٨٠° ٦٠° ٤٠° ٢٠° صفر ٢٠° ٤٠° ٦٠° ٨٠°
القطب الجنوبي

دعاء أبو زهره

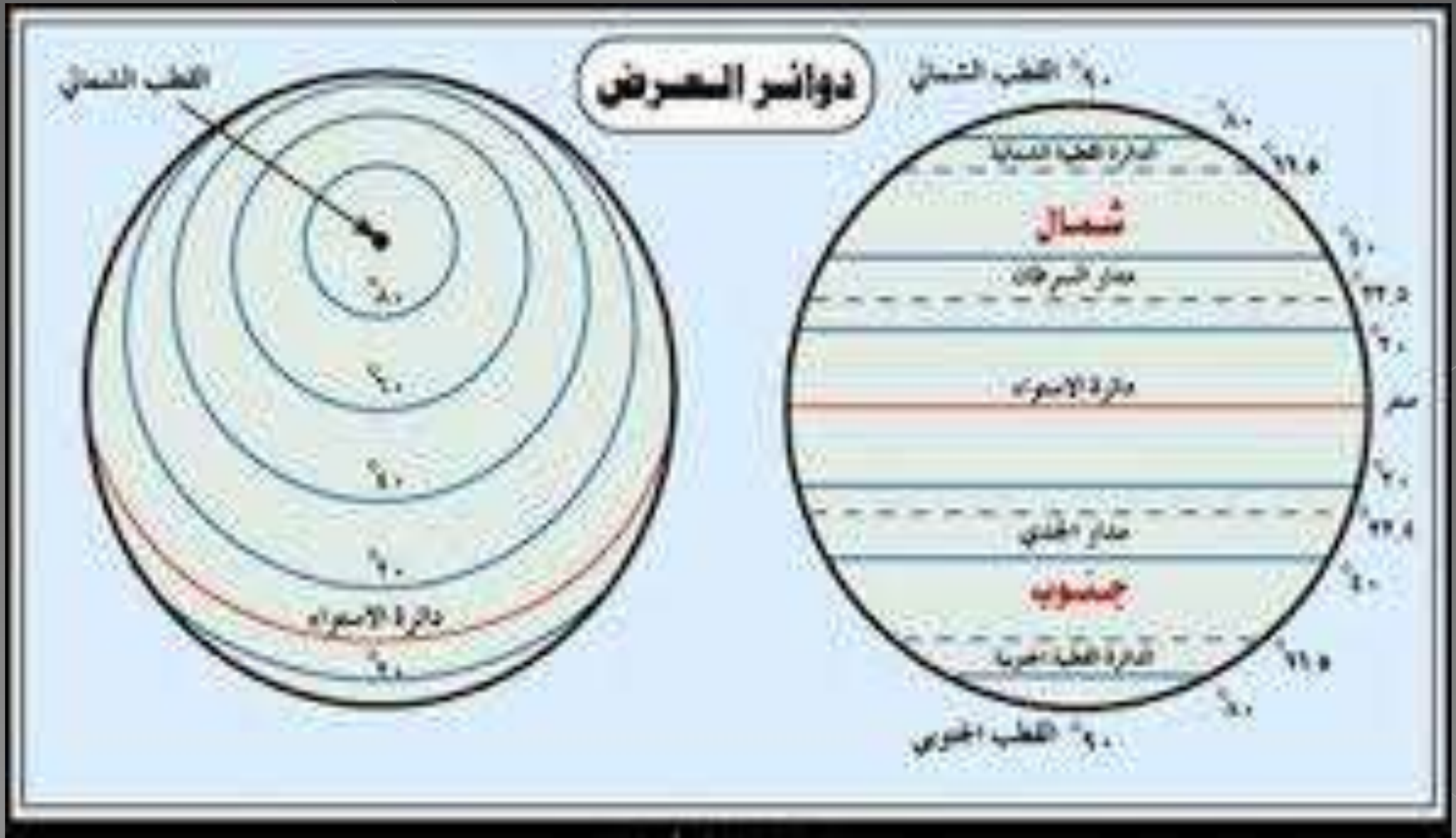
دوائر العرض
القطب الشمالي
٨٠°
٦٠°
٤٠°
٢٠°
دائرة الاستواء
٢٠°
٩٠° القطب الشمالي
٨٠°
٦٦.٥
الدائرة القطبية الشمالية
شمال
٤٠°
مدار السرطان
٢٣.٥
٢٠°
دائرة الاستواء
صفر
٢٠°
٢٣.٥
مدار الجدي
٤٠°
جنوب
الدائرة القطبية الجنوبية
٦٦.٥
٨٠°
٩٠° القطب الجنوبي

تلخيص جغرافيا – الصف السادس- الفصل الأول – درس تحديد المواقع الجغرافيّة

سبب تسمية خط غرينتش بهذا الاسم :
لأنه يمر بضاحية غرينتش في مدينة لندن
لماذا تعد خطوط الطول ودوائر العرض وهمية ؟
لأنه غير موجودة في الحقيقة إنما فقط على الخرائط

عرّف خط التاريخ الدولي :
تطابق خطا الطول 180 شرقا و180 غربا

دعاء ابو زهره

ما الموقع النسبي للمملكة الأردنية الهاشمية ؟
تقع المملكة الأردنية الهاشميّة في الجهة الجنوبية الغربية من قارة أسيا
ما الموقع الفلكي للمملكة الأردنية الهاشمية ؟
تقع على خط طول 35 شرقا ودائرة عرض 31 شمالا