إجابات أسئلة كتاب التمارين

العدد النسبي

أكتبُ كُلَّ عددٍ مِمّا يَأتي على صورةِ كَسْرٍ $\frac{a}{b}$:

1. 3 $\frac{3}{1}$
2. -6 $\frac{-6}{1}$
3. 0.65 $\frac{13}{20}$
4. 0.9 $\frac{9}{10}$
5. 1.2 $\frac{6}{5}$
6. 2.3 $\frac{23}{10}$
7. $1\frac{3}{5}$ $\frac{8}{5}$
8. $7\frac{1}{4}$ $\frac{29}{4}$
9. $-1\frac{1}{5}$ $\frac{-6}{5}$
10. 70% $\frac{7}{10}$

أُمثِّلُ كُلَّ عددٍ نِسبيٍّ مِمّا يَأتي على خطِّ الأعدادِ:

11. 30%

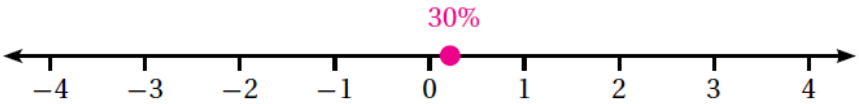

12. -2.5

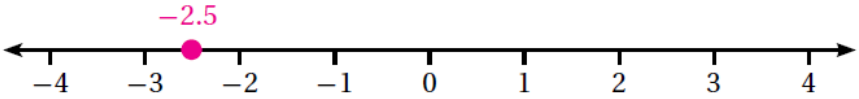

13. $1\frac{3}{4}$

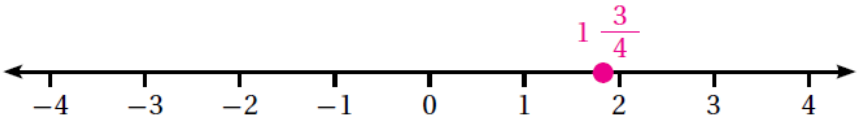

14. $-\frac{2}{3}$

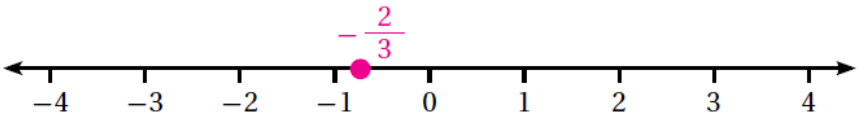

15. 0.6

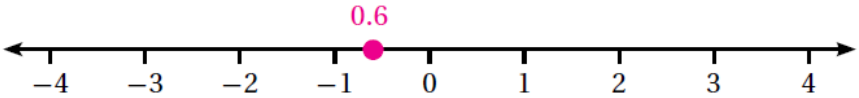

16 أكتبُ العددَ النِّسبيَّ الّذي تمثِّلهُ الأحْرفُ A , B , C على خطِّ الأعْدادِ:

$A = -\frac{1}{3}$ $B = 1\frac{1}{2}$ $B = 2\frac{1}{2}$

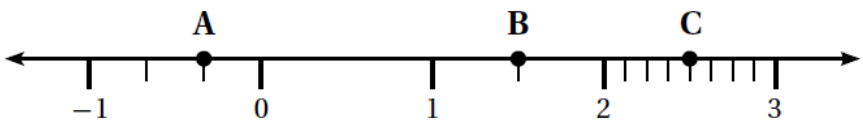

17 مُخُّ الإنْسانِ: يبلغ مُتوسِّطُ كتلةِ مُخِّ الإنْسانِ البالغِ حَوالَي 1.35 kg، أكتبُ هذه الكُتلةَ على صورةِ كسرٍ $\frac{a}{b}$.

$\frac{27}{20}$

18 يَستغرِقُ وصولُ أحْمدَ إلى مكانِ عملِه ساعَةً وخَمسًا وأربعينَ دَقيقةً، أكتبُ هذا الزمنَ بصورةِ عددٍ نِسْبِيٍّ. $\frac{7}{4}$

19 أكتبُ خَمسةَ أعدادٍ نِسبيّةٍ تقعُ ما بينَ 0 و 1 ، وأقارنُ إجابَتي معَ زُملائِي.

إجابة ممكنة $\frac{1}{2}, \frac{2}{3}, 0.8, 0.12, 3\%$